Libris.RO
Respect pentru oameni și cărți

Mensa
The High IQ Society

TESTEAZĂ-ȚI IQ-UL

ANTRENEAZĂ-TE CU 200 DE EXERCIȚII FORMIDABILE

Tim Dedopulos

O EDIȚIE LITERA

Libris.ro
Respect pentru oameni și cărți

Cuprins



Introducere	6
Testul 1	10
Testul 2	22
Testul 3	34
Testul 4	46
Testul 5	58
Testul 6	70
Testul 7	82
Testul 8	94
Testul 9	106
Testul 10	118
Răspunsuri	131

Libris.ro
Respect pentru oameni și cărți

02

De câte este nevoie pentru a echilibra ultimul cântar?

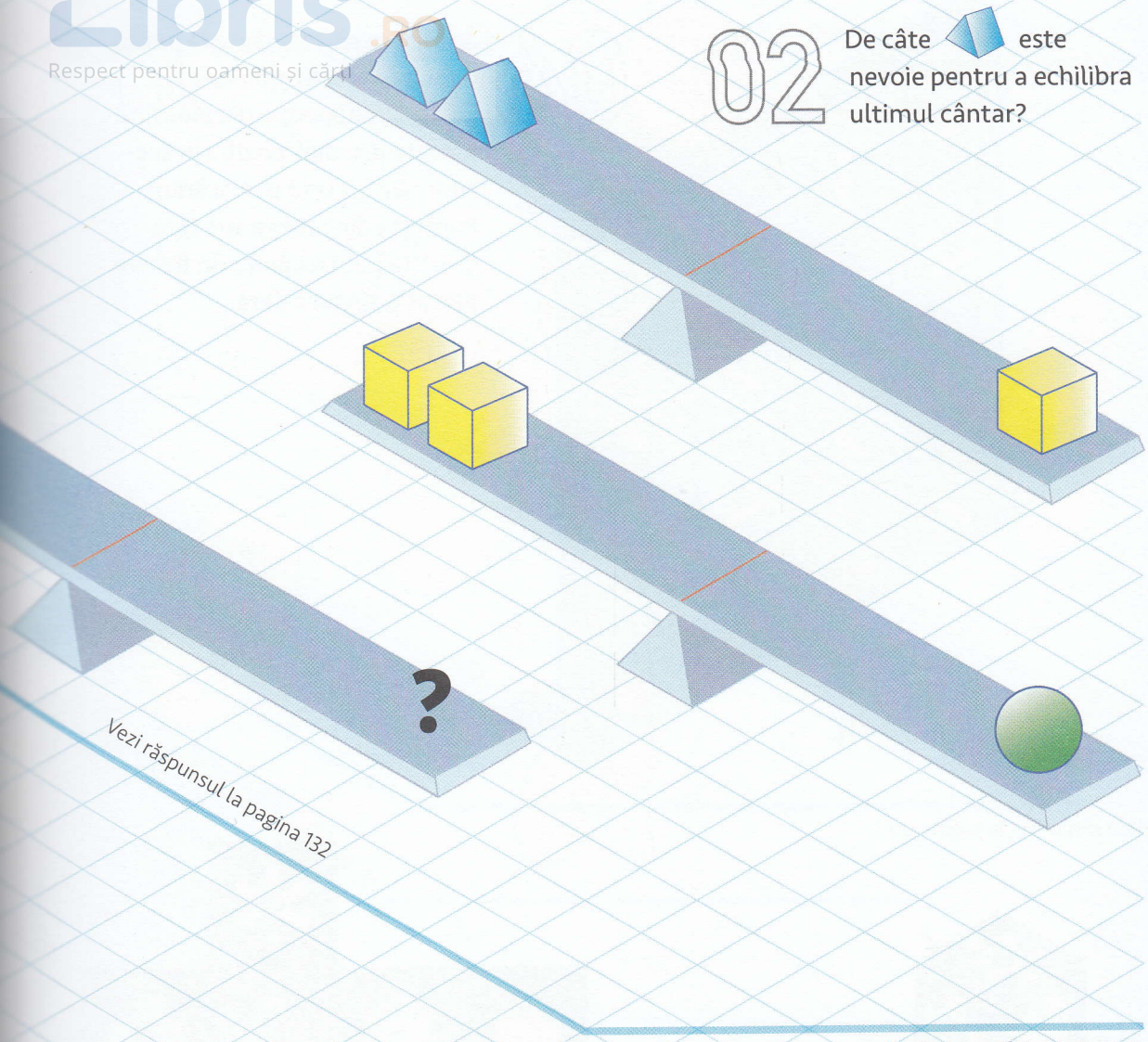

Vezi răspunsul la pagina 132

Vezi răspunsul la pagina 132

03

Completează cu semnele plus (+) sau minus (–), pentru a rezolva corect ecuația de mai jos, făcând toate calculele strict în ordinea în care apar pe pagină.

14 9 5 7 2 8 = 35

Libris.RO
Respect pentru oameni și cărți

Testul 1

01

Aceste piese pot fi îmbinate într-o formă geometrică regulată. Care este aceasta?

Vezi răspunsul la pagina 132

Libris.RO
Respect pentru oameni și cărți

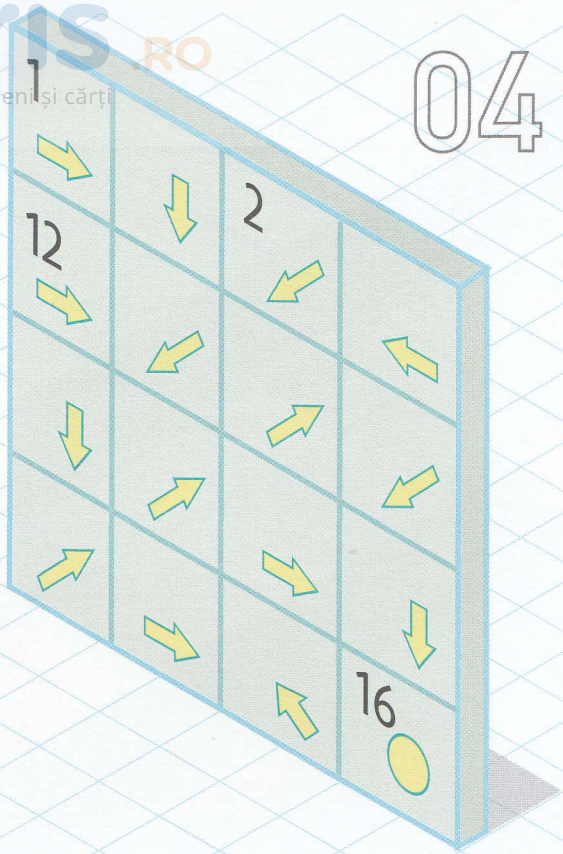

04

În fiecare pătrat, săgeata indică direcția în care trebuie să te îndrepți. Numerele din anumite pătrate le indică poziția în succesiunea corectă a mișcărilor. Pornește din stânga sus spre dreapta jos, trecând prin fiecare pătrat o singură dată.

Vezi răspunsul la pagina 132

Vezi răspunsul la pagina 132

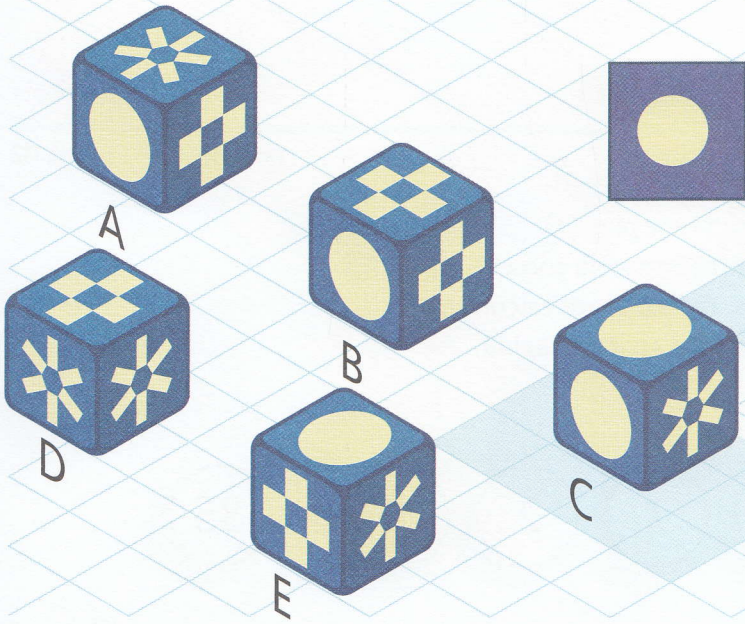



05

Care dintre cuburile de la A la E nu poate fi format folosind modelul de mai sus?

Libris.ro
Respect pentru oameni și cărți

06

Care dintre variantele de la A la C continuă cel mai bine secvența?



Vezi răspunsul la pagina 132

07

Ce număr ar trebui să fie în locul semnului întrebării?



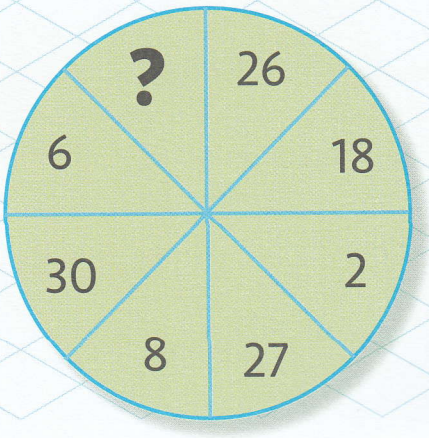

Vezi răspunsul la pagina 132

Libris.ro
Respect pentru oameni și cărți

08 Înscrie numerele de mai jos în spațiile goale pentru a completa grila.

Vezi răspunsul la pagina 132



Numere din 3 cifre	Numere din 4 cifre	Numere din 5 cifre	Numere din 6 cifre	Numere din 7 cifre	Numere din 9 cifre
328	5844	76451	115261	1215440	508361402
533	7694	78517		3541488	570406111
658		88021			
763					
776					

Libris.RO
Respect pentru oameni și cărți

09

Ce număr ar trebui să înlocuiască semnul întrebării?

1 2 3 5 8 13 ?

Vezi răspunsul la pagina 132

Vezi răspunsul la pagina 132

10

Care dintre figurile de la A la E nu se potrivește cu celelalte?

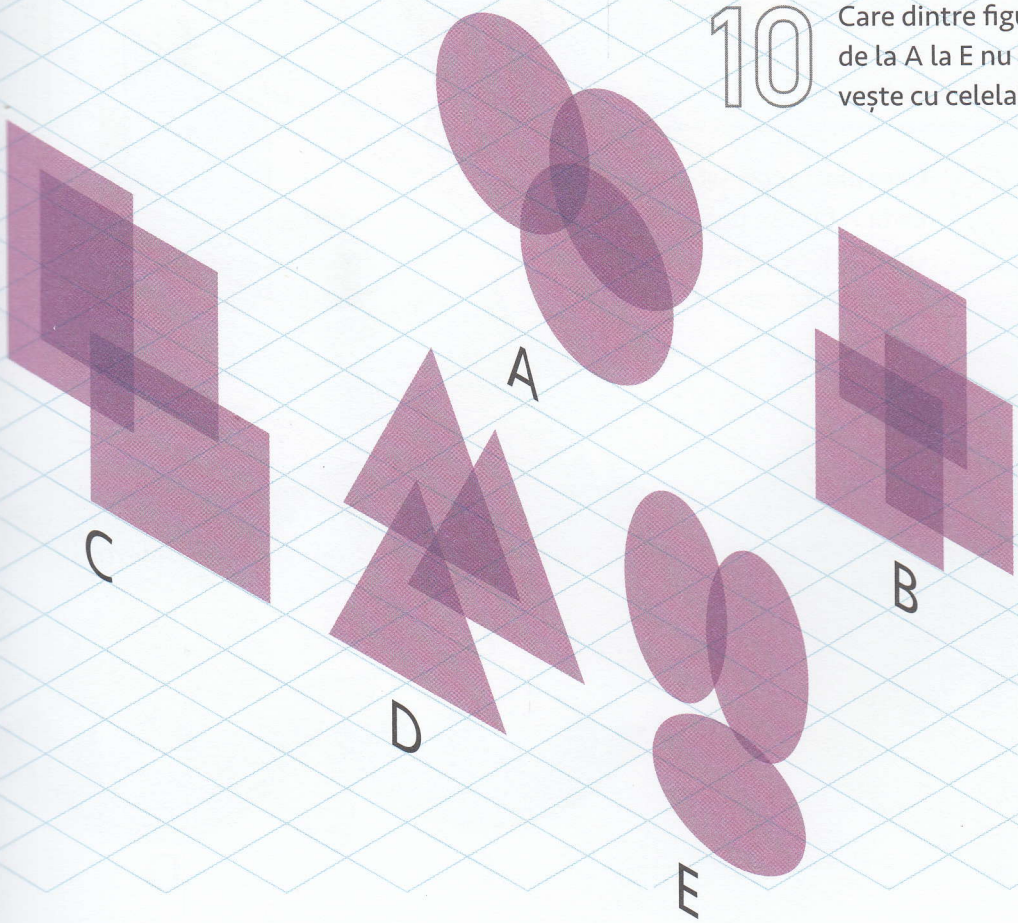

Libris.ro
Respect pentru oameni și cărți

11

Care variantă de la A la E completează cel mai bine modelul prezentat?

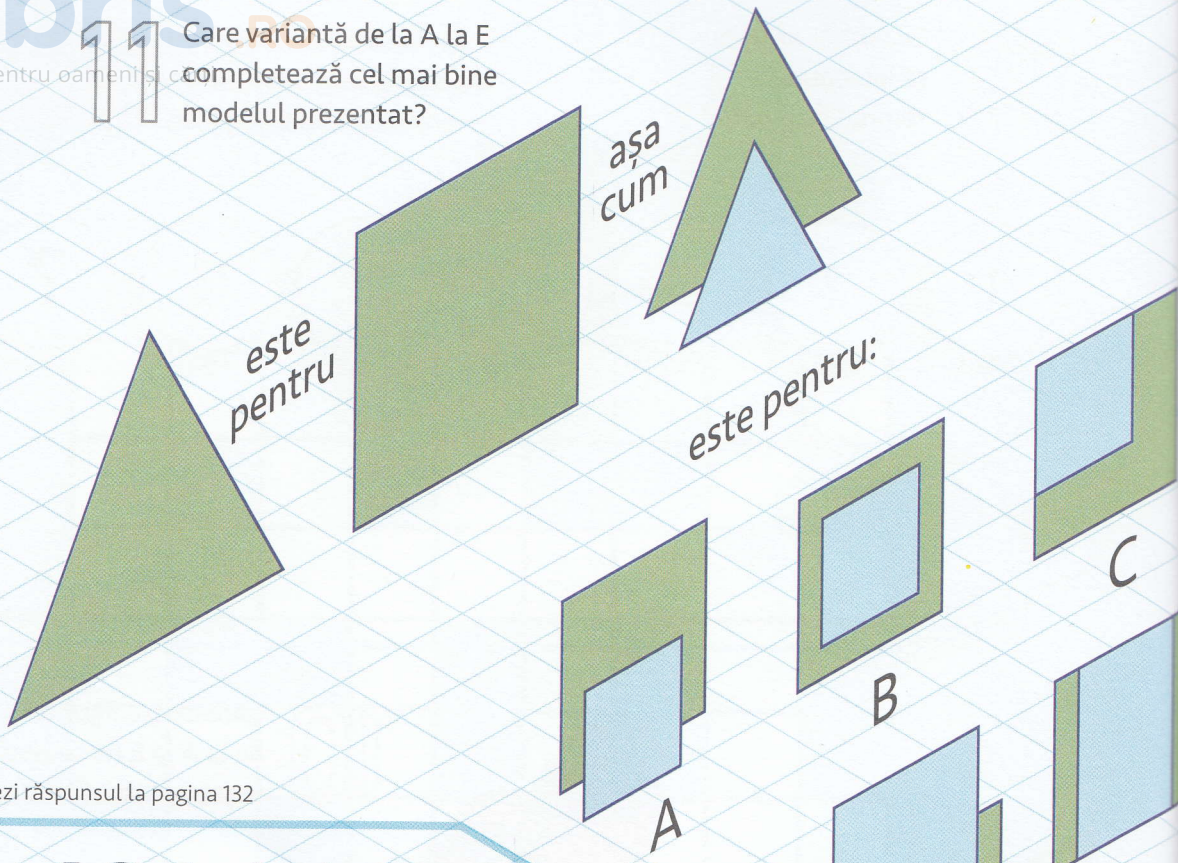

Vezi răspunsul la pagina 132

12

Care dintre formele de la A la D se potrivește cel mai bine pentru a completa cercul?

Vezi răspunsul la pagina 132

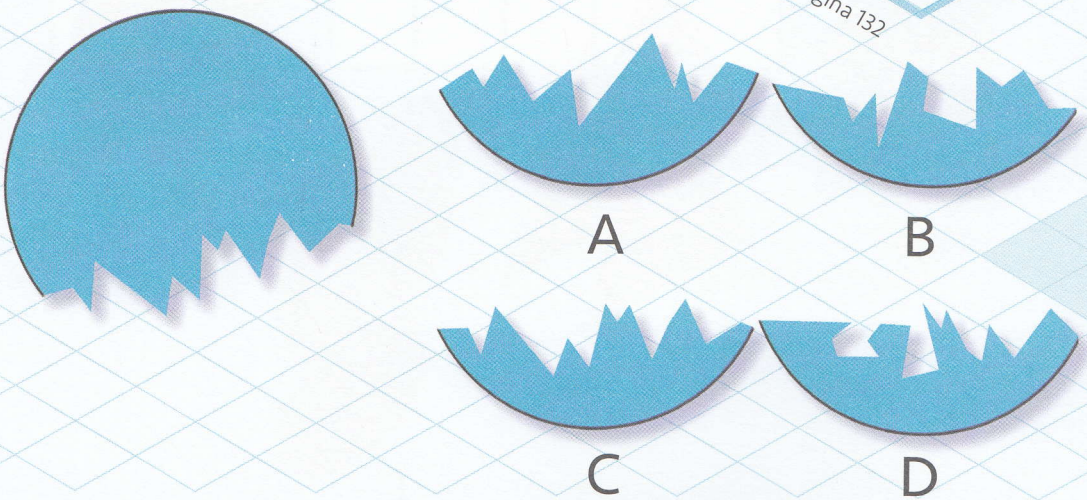

Libris.RO
Respect pentru oameni și cărți

13

Folosind șase linii drepte, împarte planul de mai jos în șase secțiuni, astfel încât fiecare să conțină șapte stele de mărime egală. Cinci dintre cele șase linii ating măcar una dintre marginile planului.

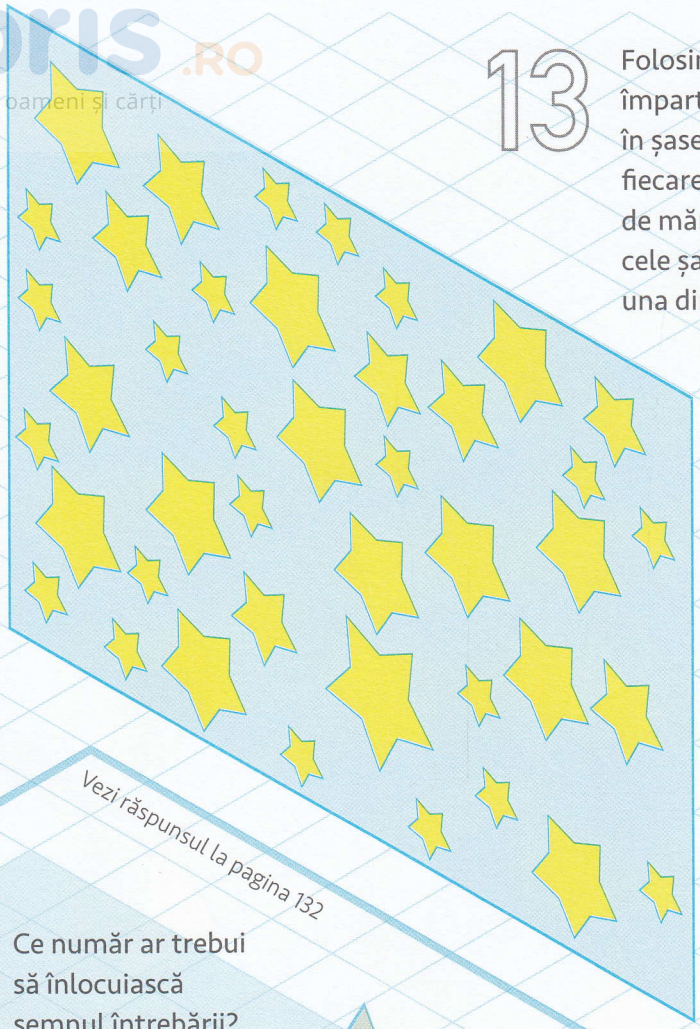

Vezi răspunsul la pagina 132

14

Ce număr ar trebui să înlocuiască semnul întrebării?



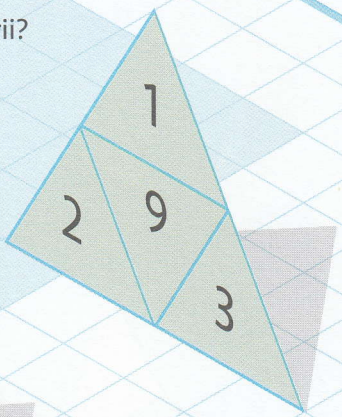

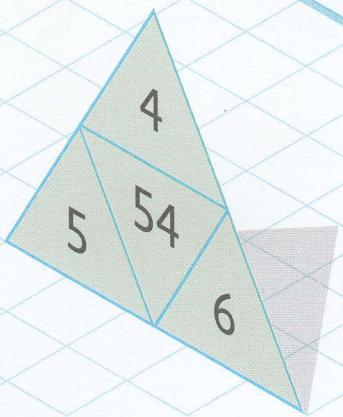

Vezi răspunsul la pagina 132